El propósito de este ejercicio es que reconozcas las estructuras que pertenecen a los aminoácidos.

EJERCICIO A: Identifica la estructura

A continuación se presentan diferentes estructuras de compuestos del carbono. Coloca en los espacios de la derecha aquellas estructuras que correspondan únicamente a aminoácidos, arrastra la estructura oprimiendo el botón izquierdo del mouse. Solamente tienes dos oportunidades para resolver el ejercicio correctamente.

Estructura	Aminoácidos
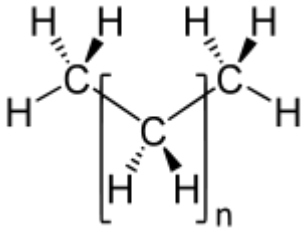	_____
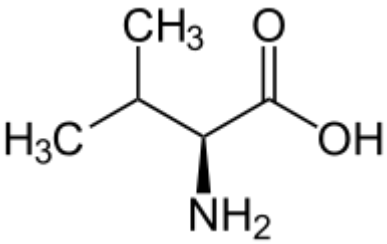	_____
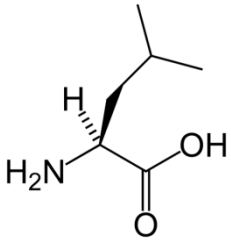	_____
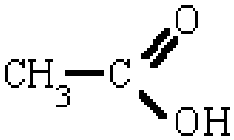	_____
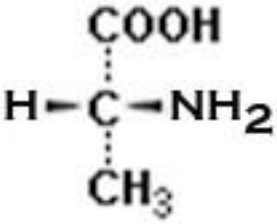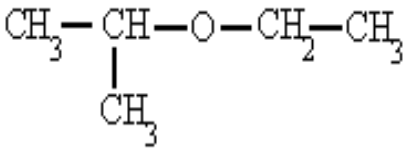	_____