ACTIVIDAD FINAL.

El propósito de esta actividad es que identifiques los grupos funcionales presentes en los aminoácidos y las proteínas; y que señales la fórmula general de los aminoácidos. Arrastra y coloca la opción que consideres correcta en el diagrama. Al terminar haz clic en el botón compara para verificar tus respuestas.

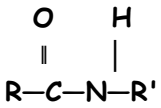	AMINOÁCIDOS	POLIPÉPTIDO	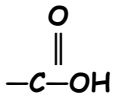
ENLACE PEPTÍDICO	$-NH_2$	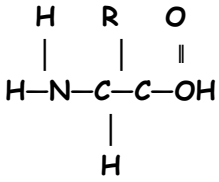	C, H, O, N

PROTEÍNAS

Se caracterizan por

los elementos químicos

C, H, O, N

sus monómeros llamados

AMINOÁCIDOS

la unión de dos o más monómeros llamada

ENLACE PEPTÍDICO

son moléculas de fórmula general

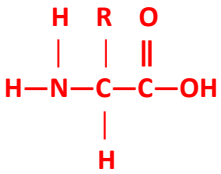

contienen los grupos funcionales

- **AMINO** $-NH_2$
- **CARBOXILO** 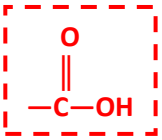

formado por el grupo funcional

AMIDA 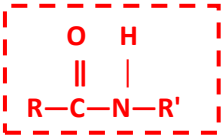

la unión de miles de monómeros es un polímero llamado

POLIPÉPTIDO

COMPARA

RETROALIMENTACIÓN

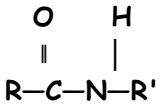	**AMINOÁCIDOS**	**POLIPÉPTIDO**	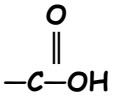
Si responde bien: √ No respondió bien: Revisa el tema 3 Enlace peptídico	Si responde bien: √ No respondió bien: Revisa el tema 2. Composición	Si responde bien: √ No respondió bien: Revisa el tema 3. Enlace peptídico	Si responde bien: √ No respondió bien: Revisa el tema 2. Composición
ENLACE PEPTÍDICO	$-NH_2$	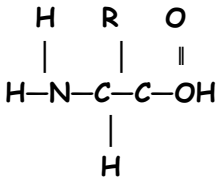	**C, H, O, N**
Si responde bien: √ No respondió bien: Revisa el tema 3. Enlace peptídico	Si responde bien: √ No respondió bien: Revisa el tema 2. Composición	Si responde bien: √ No respondió bien: Revisa el tema 2. Composición	Si responde bien: √ No respondió bien: Revisa el tema 2. Composición